الثانوية التاهيلية القدس **تيغسالين**	**فرض محروس 2 الدورة الثانية** **الرياضيات**	**السنة الدراسية : 2016-2015** **مدة الإنجاز : ساعة واحدة**

التمرين الأول : 10ن

1) -أ- حل النظمة : $(S_1)\begin{cases} x+y=1 \\ 2x-y=-4 \end{cases}$

-ب - استنتج حل النظمة : $\begin{cases} x+\dfrac{1}{\sqrt{y}}=1 \\ 2x-\dfrac{1}{\sqrt{y}}=-4 \end{cases}$

2) -أ- حل النظمة : $\begin{cases} x+y=14 \\ 2x+3y=33 \end{cases}$.

-ب- يحتوي مركب سكني على 140 شقة موزعة إلى صنفين : شقق من غرفتين و شقق من ثلاث غرف .
علما أن العدد الإجمالي لغرف هذا المركب هو 330 ، حدد عدد شقق كل صنف .

التمرين الثاني : 2

1)نعتبر النقط $A(2;0)$ و $B(5;4)$ و $C(0;6)$.
-أ- أنشئ النقط : C ,B,A
-ب- حدد زوج إحداثيتي المتجهة $\overrightarrow{AB}$.
-ج- أحسب المسافة AB .
-د - تحقق من أن : $y=-3x+6$ هي معادلة المختصرة للمستقيم (D) المار من النقطتين A و C .
2) -أ- حدد زوج إحداثيتي E منتصف القطعة $[AC]$.
-ب- حدد المعادلة المختصرة المستقيم (Δ) واسط القطعة $[AC]$.

ثانوية سيدي المخفي الإعدادي المستوى: 3 ثانوي إعدادي	**فرض كتابي رقم -2-** **الدورة الثانية**	الأستاذ: العثماني رضوان 2019-2018

التمرين الأول: (5ن)

نعتبر النظمة (S) التالية: $(S)\begin{cases} x+y=130 \\ x-2y=180 \end{cases}$

1) هل الزوج $(80\,;10)$ يحقق النظمة (S) . علل جوابك. 1

2) حل النظمة **جبريا**. 2

3) تحمل شاحنة 130 كيسا من الدقيق من صنفين.
يزن كل كيس من الصنف الأول $5kg$ ويزن كل كيس من الصنف الثاني $10kg$.
حدد عدد الاكياس من كل صنف، إذا علمت أن الشاحنة تحمل بالضبط $900kg$ من الدقيق. 2

التمرين الثاني: (13ن)

في المستوى المنسوب إلى معلم متعامد ممنظم $(O\,;I\,;J)$ نعتبر النقط:
$A(2\,;3)$ و $B(4\,;-1)$ و $C(-2\,;1)$

I. الجزء الأول

1. حدد إحداثيتي كل من المتجهتين: $\overrightarrow{AB}$ و $\overrightarrow{AC}$ 1+1
2. أحسب المسافتين: AC و BC . واستنتج طبيعة المثلث ABC 2,5
3. حدد إحداثيتي النقطة E منتصف $[BC]$ 1

II. الجزء الثاني

1. بين أن المعادلة المختصرة للمستقيم (BC) هي: $(BC): y=-\frac{1}{3}x+\frac{1}{3}$ 1,5
2. حدد معادلة مختصرة للمستقيم (D) واسط القطعة $[BC]$. 2
3. بين أن $A\in(D)$. 1
4. حدد معادلة مختصرة للمستقيم (Δ) المار من A والموازي ل (BC). 1,5
5. استنتج نقطة تقاطع المستقيمين (Δ) و (D). 0,5
6. استنتج حلا للنظمة (S) :

$$(S)\begin{cases} y=3x-3 \\ y=-\frac{1}{3}x+\frac{1}{3} \end{cases}$$ 1

التمرين الثالث: (1ن)

بين أن النقط $A(1;-1)$ ، $B(3:3)$ ، $C(4;5)$ مستقيمية. 1

تحتسب نقطة للواجبات المنزلية. بالتوفيق.

ثانوية سيدي المخفي الإعدادي المستوى: 3 ثانوي إعدادي	**فرض كتابي رقم -2-** **الدورة الثانية**	الأستاذ: العثماني رضوان 2019-2018

التمرين الأول: (5ن)

نعتبر النظمة (S) التالية: $(S)\begin{cases} x+y=130 \\ x-2y=180 \end{cases}$

1) هل الزوج $(80\,;10)$ يحقق النظمة (S) . علل جوابك. 1

2) حل النظمة **جبريا**. 2

3) تحمل شاحنة 130 كيسا من الدقيق من صنفين.
يزن كل كيس من الصنف الأول $5kg$ ويزن كل كيس من الصنف الثاني $10kg$.
حدد عدد الاكياس من كل صنف، إذا علمت أن الشاحنة تحمل بالضبط $900kg$ من الدقيق. 2

التمرين الثاني: (13ن)

في المستوى المنسوب إلى معلم متعامد ممنظم $(O\,;I\,;J)$ نعتبر النقط:
$A(2\,;3)$ و $B(4\,;-1)$ و $C(-2\,;1)$

I. الجزء الأول

1. حدد إحداثيتي كل من المتجهتين: $\overrightarrow{AB}$ و $\overrightarrow{AC}$ 1+1
2. أحسب المسافتين: AC و BC . واستنتج طبيعة المثلث ABC 2,5
3. حدد إحداثيتي النقطة E منتصف $[BC]$ 1

II. الجزء الثاني

1. بين أن المعادلة المختصرة للمستقيم (BC) هي: $(BC): y=-\frac{1}{3}x+\frac{1}{3}$ 1,5
2. حدد معادلة مختصرة للمستقيم (D) واسط القطعة $[BC]$. 2
3. بين أن $A\in(D)$. 1
4. حدد معادلة مختصرة للمستقيم (Δ) المار من A والموازي ل (BC). 1,5
5. استنتج نقطة تقاطع المستقيمين (Δ) و (D). 0,5
6. استنتج حلا للنظمة (S) :

$$(S)\begin{cases} y=3x-3 \\ y=-\frac{1}{3}x+\frac{1}{3} \end{cases}$$ 1

التمرين الثالث: (1ن)

بين أن النقط $A(1;-1)$ ، $B(3:3)$ ، $C(4;5)$ مستقيمية. 1

تحتسب نقطة للواجبات المنزلية. بالتوفيق.

فرض محروس -2- في مادة الرياضيات الدورة الثانية (A)

المستوى: الثالثة ثانوي إعدادي 4 المدة: ساعة واحدة

التمرين الأول (10 نقط)

1) f دالة خطية معاملها 3

- حدد صيغة الدالة f (1 ن)
- أُحسب : $f(1)$ و $f(-2)$ (2 ن)
- حدد العدد الحقيقي الذي صورته بالدالة f هي -6 (1 ن)
- هل النقطة $E(2,-6)$ تنتمي إلى التمثيل المبياني للدالة f ؟ (0.5 ن)
- أنشئ التمثيل المبياني للدالة f في معلم متعامد ممنظم (O,I,J) (1 ن)

2) في الشكل جانبه المستقيم (Δ) هو التمثيل المبياني للدالة التآلفية g

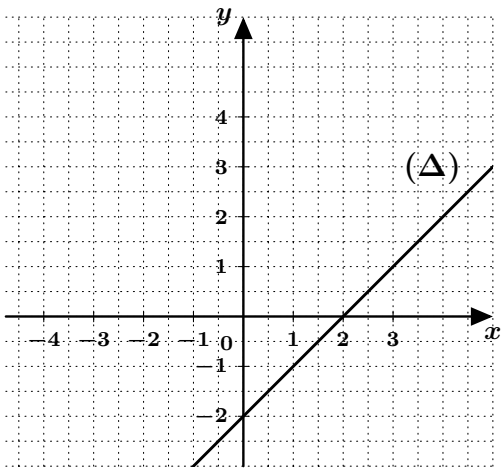

- ما هي صورة العدد 1 و العدد 3 بالدالة g؟ (1 ن)
- ما هو العدد الحقيقي الذي صورته -2 بالدالة g ؟ (0.5 ن)
- حدد صيغة الدالة g ؟ (2 ن)
- بين أن النقطة $M(-3,-5)$ تنتمي إلى المستقيم (Δ) (1 ن)

التمرين الثاني (10 نقط)

في المستوى المنسوب إلى معلم متعامد ممنظم (O,I,J)، نعتبر النقط $A(2,3)$ و $B(-2,5)$ و $C(1,6)$

1. أنشئ النقط A و B و C (1.5 ن)
2. حدد زوج إحداثيتي المتجهة $\overrightarrow{AB}$ (1 ن)
3. أُحسب المسافة AB (1 ن)
4. بين أن المعادلة المختصرة للمستقيم (AB) هي : $y=-\frac{1}{2}x+4$ (2 ن)
5. حدد زوج إحداثيتي النقطة H منتصف القطعة $[AB]$ (1 ن)
6. نعتبر النقطة $D(x,5-x)$ حيث x عدد حقيقي

   أُحسب قيمة العدد x إذا علمت أن الرباعي $ABDC$ متوازي أضلاع ثم مثل النقطة D (1.5 ن)
7. أ) حدد زوج إحداثيتي النقطة G بحيث : $\overrightarrow{CG}=\frac{2}{3}\overrightarrow{CH}$ (1 ن)

   ب) تحقق أن : $\overrightarrow{GA}+\overrightarrow{GB}+\overrightarrow{GC}=\overrightarrow{0}$ (1 ن)

فرض محروس -2- في مادة الرياضيات الدورة الثانية (B)

المستوى: الثالثة ثانوي إعدادي 4 المدة: ساعة واحدة

التمرين الأول (10 نقط)

1) f دالة خطية معاملها 4

- حدد صيغة الدالة f (1 ن)
- أُحسب : $f(1)$ و $f(-2)$ (2 ن)
- حدد العدد الحقيقي الذي صورته بالدالة f هي -6 (1 ن)
- هل النقطة $E(2,-8)$ تنتمي إلى التمثيل المبياني للدالة f ؟ (0.5 ن)
- أنشئ التمثيل المبياني للدالة f في معلم متعامد ممنظم (O,I,J) (1 ن)

2) في الشكل جانبه المستقيم (Δ) هو التمثيل المبياني للدالة التآلفية g

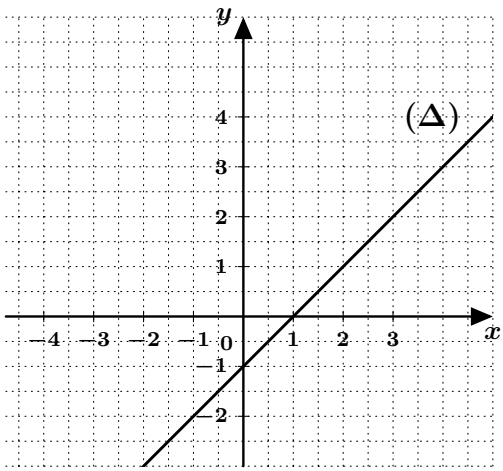

- ما هي صورة العدد 2 و العدد 3 بالدالة g؟ (1 ن)
- ما هو العدد الحقيقي الذي صورته -2 بالدالة g ؟ (0.5 ن)
- حدد صيغة الدالة g ؟ (2 ن)
- بين أن النقطة $M(-3,-4)$ تنتمي إلى المستقيم (Δ) (1 ن)

التمرين الثاني (10 نقط)

في المستوى المنسوب إلى معلم متعامد ممنظم (O,I,J)، نعتبر النقط $A(2,3)$ و $B(1,6)$ و $C(-2,5)$

1. أنشئ النقط A و B و C (1.5 ن)
2. حدد زوج إحداثيتي المتجهة $\overrightarrow{AB}$ (1 ن)
3. أُحسب المسافة AB (1 ن)
4. بين أن المعادلة المختصرة للمستقيم (AC) هي : $y=-\frac{1}{2}x+4$ (2 ن)
5. حدد زوج إحداثيتي النقطة H منتصف القطعة $[AC]$ (1 ن)
6. نعتبر النقطة $D(x,5-x)$ حيث x عدد حقيقي

   أُحسب قيمة العدد x إذا علمت أن الرباعي $ABDC$ متوازي أضلاع ثم مثل النقطة D (1.5 ن)
7. أ) حدد زوج إحداثيتي النقطة G بحيث : $\overrightarrow{BG}=\frac{2}{3}\overrightarrow{BH}$ (1 ن)

   ب) تحقق أن : $\overrightarrow{GA}+\overrightarrow{GB}+\overrightarrow{GC}=\overrightarrow{0}$ (1 ن)

ثانوية عمر بن الخطاب الإعدادية	**فرض محروس رقم ❷ الأسدس الثاني**	المادة : الرياضيات 55 دقيقة
بركان	**الأستاذ**: توفيق بوكرارة	المستوى: الثالثة ثانوي إعدادي

الإسم: ..... **القسم:** ..... **الرقم:** .....

التمرين الأول (13.5 نقطة) :

نعتبر في المستوى المنسوب إلى معلم متعامد ممنظم $(O;I;J)$ النقط التالية: $E(1;-1)$ و $F(3;1)$ و $G(2;2)$

I) 1- مثل النقط E و F و G . (1.5 ن)

.....

2- أحسب EF . (1 ن)

.....

3- حدد إحداثيتي المتجهة $\overrightarrow{EF}$. (1 ن)

.....

4- حدد زوج إحداثيتي النقطة I منتصف القطعة $[EF]$. (1 ن)

.....

II) 1- بين أن المعادلة المختصرة للمستقيم (EF) هي: $y = x - 2$. (2 ن)

.....

2- بين أن $y = -x + 4$ هي معادلة المستقيم (D) المار من النقطة G والعمودي على (EF) . (2 ن)

.....

3- تحقق أن النقطة F تنتمي للمستقيم (D) . (1 ن)

.....

III) نعتبر المستقيم (Δ) الذي معادلته المختصرة هي: $y = x - 5$.

1) هل (EF) و (Δ) متوازيان؟ علل جوابك. (1 ن)

.....

2) أنشئ المستقيم (Δ) و (D) . (1.5 ن) (1.5 ن)

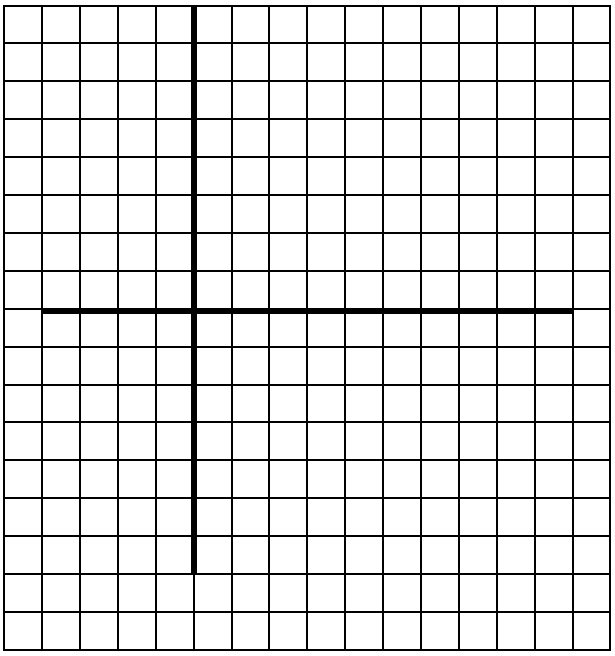

❁ التمرين الثاني (3 نقط) :

نعتبر النظمة التالية:

$$(s):\begin{cases}2x+6y=200\\ x+y=60\end{cases}$$ **(1 ن)**

1) **هل الزوج $(22;24)$ حل للنظمة (S)** .

.....

.....

.....

.....

.....

2) **حل جبريا النظمة (S)** . **(2 ن)**

.....

.....

.....

.....

.....

.....

.....

.....

.....

.....

❁ مسألة (3 نقط) :

ثمن دخول مسبح هو **20 درهما للأطفال** و 60 درهما للبالغين، دخل المسبح في يوم معين **60 شخصا** تركوا في صندوقه **2000 درهم**.

حدد عدد الأطفال وعدد البالغين الذين دخلوا المسبح في ذلك اليوم.

.....

.....

.....

.....

.....

.....

.....

.....

.....

.....

.....

.....

.....

.....

.....

.....

.....

.....

.....

ملاحظة: تمنح 0.5 نقطة على نظافة الورقة

ثانوية ملوية الإعدادية
- بومية -

فرض منزلي رقم 2	الصفحة	1
الأسدوس الثاني	المدة الإنجاز	ساعة واحدة
التعليم العام : الثالثة ثانوي إعدادي	المعامل	1
المادة : الرياضيات	الموسم الدراسي	2019 – 2020

يسمح باستعمال الآلة الحاسبة غير القابلة للبرمجة

التنقيط	الموضوع
	التمرين الأول (10نقط)
	1) نعتبر الدالة الخطية f المعرفة كمايلي : $f(x) = 3x$
3	a) أحسب $f(2)$ ثم حدد العدد الذي صورتة بالدالة f هي -6
2	b) أنشئ التمثيل المبياني للدالة f
	2) g دالة تآلفية بحيث : $g(1) = 3$ و $g(4) - g(3) = 2$
2	c) بين أن لكل عدد حقيقي x : $g(x) = 2x + 1$
1	d) هل النقطة $B(-2;-3)$ تنتمي للتمثيل المبياني ل g
2	e) أنشئ التمثيل المبياني للدالة g
	التمرين الثاني (10نقط)
1	1)أنشئ النقطتين $A(3,2)$ و $B(-1,4)$ على معلم متعامد ممنظم $(O;I;J)$
2	2)تحقق أن المعادلة المختصرة للمستقيم (AB) هي : $y = \frac{-1}{2}x + \frac{7}{2}$
	3)
1	a) تحقق أن $(1;3)$ زوج إحداثيتي K منتصف القطعة $[AB]$
2	b)أثبت أن المعادلة المختصرة للمستقيم $(\triangle)$واسط القطعة $[AB]$ هي : $y = 2x + 1$
	4) نعتبر النقطتين $C(2;-5)$ و $D(-2;-3)$
2	c) بين أن الرباعي $ABDC$ متوازي الأضلاع واستنتج ميل المستقيم (DC)
2	d)أحسب المسافة KC

تـــــــــصحـــــــيـــــح الفرض المنزلي رقم 2

الأســــــــــــدوس الثانـــــــــــــي

حـــــــل التمرين الأول

1) لنعتبر الدالة الخطية f المعرفة كمايلي : $f(x) = 3x$

a) لنحسب $f(2)$ ثم لنحـــدد العدد الذي صورتة بالدالة f هي -6

*) حـــــــــــــساب $f(2)$

لـــــــدينا : $f(x) = 3x$

ومـــــنـــه : $f(2) = 3 \times 2$

إذن : $\boxed{f(2) = 6}$

*) تحديـــد العدد الذي صورتة بالدالة f هي -6

يعني لنحل المعادلة : $f(x) = -6$

ومـــــنـــه : $3x = -6$

ومـــــنـــه : $x = \frac{-6}{3}$

إذن : $\boxed{x = -2}$

وبالتالي العدد الذي صورتة بالدالة f هي -6هوالعدد الحقيقي -2 أي : $\boxed{f(-2) = -6}$

b) لننشئ التمثيل المبياني للدالة f(أنـــــــــظر المعلم جانبه)

لدينا حسب السؤال السابق أن : $\boxed{f(2) = 6}$

وبمأن f دالة خطية فإن : $\boxed{f(0) = 0}$

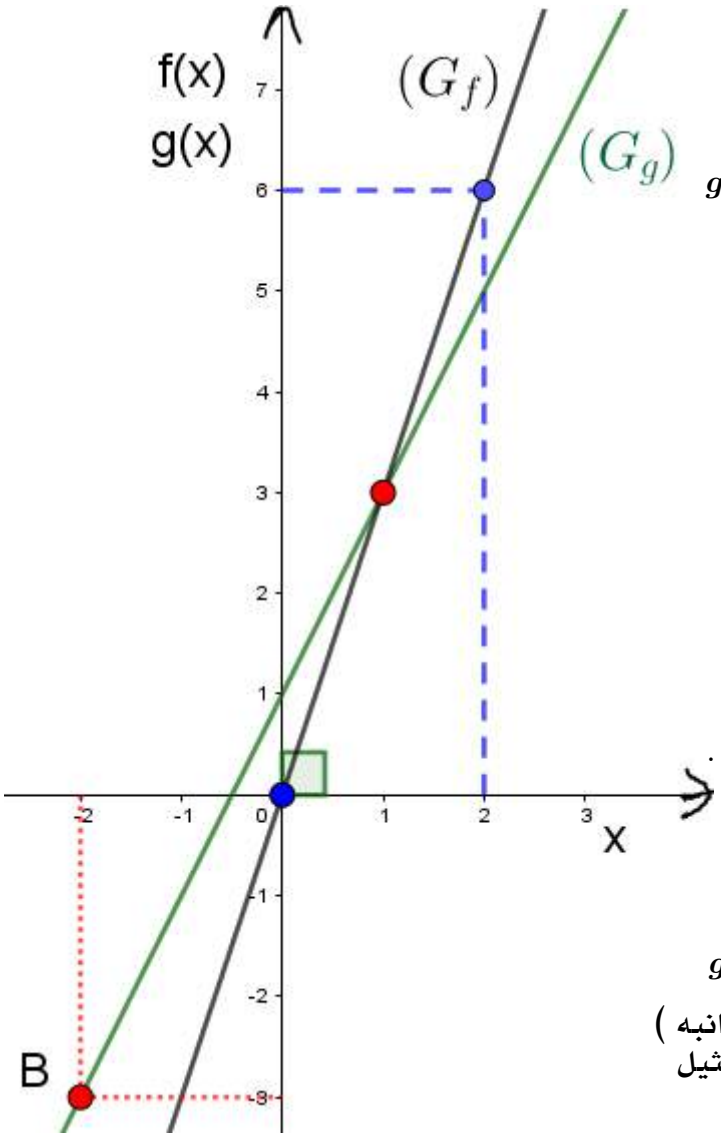

2) لتـــكن g دالة تآلفية بحيث : $g(1) = 3$

و $g(4) - g(3) = 2$

c) لنبين أن لكل عدد حقيقي x : $g(x) = 2x + 1$

بمأن g دالة تآلفية فإن $g(x) = \alpha x + \beta$

*) تحديد α معامل الدالة g

لدينا : $\alpha = \frac{g(x)-g(y)}{x-y}$

ومنه : $\alpha = \frac{g(4)-g(3)}{4-3} = \frac{2}{1} = 2$

أي : $\boxed{\alpha = 2}$

إذن : $\boxed{g(x) = 2x + \beta}$

*) تحديد الثابتة β

ومنه : $g(1) = 2 \times 1 + \beta$

ومنه : $g(1) = 2 + \beta$

ومنه : $3 = 2 + \beta$

ومنه : $3 - 2 = \beta$

أي : $\boxed{\beta = 1}$

وبالتالي $\boxed{g(x) = 2x + 1}$ وهذا هو المطلوب .

d) لدينا : $g(x) = 2x + 1$

ومنه : $g(-2) = 2 \times (-2) + 1$

ومنه : $g(-2) = -4 + 1$

إذن : $g(-2) = -3$

وبالتالي النقطة $B(-2; -3)$تنتمي للتمثيل المبياني ل g

e) لننشئ التمثيل المبياني للدالة g (أنـظر المعلم جانبه)

لدينا حسب السؤال السابق أن $B(-2; -3)$تنتمي للتمثيل المبياني ل g

ولدينا حسب المعطيات أن : $\boxed{g(1) = 3}$